+101 ACTIVIDADES DE MATEMÁTICAS



FOCO KIDS · PARA IMPRIMIR

001

Cuenta y escribe

Matemáticas

Cuenta los dibujos de cada fila y escribe el número en el cuadro.









¡Lo logré! ☆ ☆ ☆

002

Cuenta y escribe

Matemáticas

Cuenta los dibujos de cada fila y escribe el número en el cuadro.









¡Lo logré! ☆ ☆ ☆

003

Cuenta y escribe

Matemáticas

Cuenta los dibujos de cada fila y escribe el número en el cuadro.









¡Lo logré! ☆ ☆ ☆

004 Cuenta y escribe

Matemáticas

Cuenta los dibujos de cada fila y escribe el número en el cuadro.









¡Lo logré! ☆ ☆ ☆

005

Cuenta y escribe

Matemáticas

Cuenta los dibujos de cada fila y escribe el número en el cuadro.









¡Lo logré! ☆ ☆ ☆

006

Cuenta y escribe

Matemáticas

Cuenta los dibujos de cada fila y escribe el número en el cuadro.









¡Lo logré! ☆ ☆ ☆

007 Cuenta y escribe

Matemáticas

Cuenta los dibujos de cada fila y escribe el número en el cuadro.









¡Lo logré! ☆ ☆ ☆

008

Cuenta y escribe

Matemáticas

Cuenta los dibujos de cada fila y escribe el número en el cuadro.









¡Lo logré! ☆ ☆ ☆

009

Cuenta y escribe

Matemáticas

Cuenta los dibujos de cada fila y escribe el número en el cuadro.









¡Lo logré! ☆ ☆ ☆

010 Cuenta y escribe

Matemáticas

Cuenta los dibujos de cada fila y escribe el número en el cuadro.









¡Lo logré! ☆ ☆ ☆

011

Cuenta y escribe

Matemáticas

Cuenta los dibujos de cada fila y escribe el número en el cuadro.



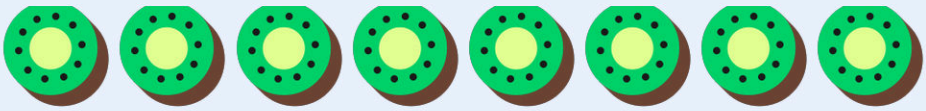





¡Lo logré! ☆ ☆ ☆

012

Cuenta y escribe

Matemáticas

Cuenta los dibujos de cada fila y escribe el número en el cuadro.

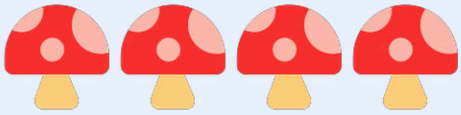







¡Lo logré! ☆ ☆ ☆

013

Cuenta y escribe

Matemáticas

Cuenta los dibujos de cada fila y escribe el número en el cuadro.









¡Lo logré! ☆ ☆ ☆

014 Cuenta y escribe

Matemáticas

Cuenta los dibujos de cada fila y escribe el número en el cuadro.









¡Lo logré! ☆ ☆ ☆

015 Cuenta y escribe

Matemáticas

Cuenta los dibujos de cada fila y escribe el número en el cuadro.









¡Lo logré! ☆ ☆ ☆

016 Suma con dibujos

Matemáticas

Cuenta los dibujos de cada grupo, súmalos y escribe el total.

 +  = ☐

 +  = ☐

 +  = ☐

 +  = ☐

¡Lo logré! ☆ ☆ ☆

017 Suma con dibujos

Matemáticas

Cuenta los dibujos de cada grupo, súmalos y escribe el total.

 +  = ☐

 +  = ☐

 +  = ☐

 +  = ☐

¡Lo logré! ☆ ☆ ☆

018

Suma con dibujos

Matemáticas

Cuenta los dibujos de cada grupo, súmalos y escribe el total.









¡Lo logré! ☆ ☆ ☆

019

Suma con dibujos

Matemáticas

Cuenta los dibujos de cada grupo, súmalos y escribe el total.









¡Lo logré! ☆ ☆ ☆

020

Suma con dibujos

Matemáticas

Cuenta los dibujos de cada grupo, súmalos y escribe el total.









¡Lo logré! ☆ ☆ ☆

021

Suma con dibujos

Matemáticas

Cuenta los dibujos de cada grupo, súmalos y escribe el total.

 +  = ☐

 +  = ☐

 +  = ☐

 +  = ☐

¡Lo logré! ☆ ☆ ☆

022 Suma con dibujos

Matemáticas

Cuenta los dibujos de cada grupo, súmalos y escribe el total.









¡Lo logré! ☆ ☆ ☆

023 Suma con dibujos

Matemáticas

Cuenta los dibujos de cada grupo, súmalos y escribe el total.









¡Lo logré! ☆ ☆ ☆

024 Suma con dibujos

Matemáticas

Cuenta los dibujos de cada grupo, súmalos y escribe el total.

 +  = ☐

 +  = ☐

 +  = ☐

 +  = ☐

¡Lo logré! ☆ ☆ ☆

025 Suma con dibujos

Matemáticas

Cuenta los dibujos de cada grupo, súmalos y escribe el total.

 +  = ☐

 +  = ☐

 +  = ☐

 +  = ☐

¡Lo logré! ☆ ☆ ☆

026

Suma con dibujos

Matemáticas

Cuenta los dibujos de cada grupo, súmalos y escribe el total.

 +  = ☐

 +  = ☐

 +  = ☐

 +  = ☐

¡Lo logré! ☆ ☆ ☆

027 Suma con dibujos

Matemáticas

Cuenta los dibujos de cada grupo, súmalos y escribe el total.

 +  = ☐

 +  = ☐

 +  = ☐

 +  = ☐

¡Lo logré! ☆ ☆ ☆

028

Suma con dibujos

Matemáticas

Cuenta los dibujos de cada grupo, súmalos y escribe el total.









¡Lo logré! ☆ ☆ ☆

029 Suma con dibujos

Matemáticas

Cuenta los dibujos de cada grupo, súmalos y escribe el total.









¡Lo logré! ☆ ☆ ☆

030

Suma con dibujos

Matemáticas

Cuenta los dibujos de cada grupo, súmalos y escribe el total.









¡Lo logré! ☆ ☆ ☆

031 Resta con dibujos

Matemáticas

Del primer grupo se van los del segundo. ¿Cuántos quedan? Escribe el resultado.









¡Lo logré! ☆ ☆ ☆

032 Resta con dibujos

Matemáticas

Del primer grupo se van los del segundo. ¿Cuántos quedan? Escribe el resultado.









¡Lo logré! ☆ ☆ ☆

033

Resta con dibujos

Matemáticas

Del primer grupo se van los del segundo. ¿Cuántos quedan? Escribe el resultado.

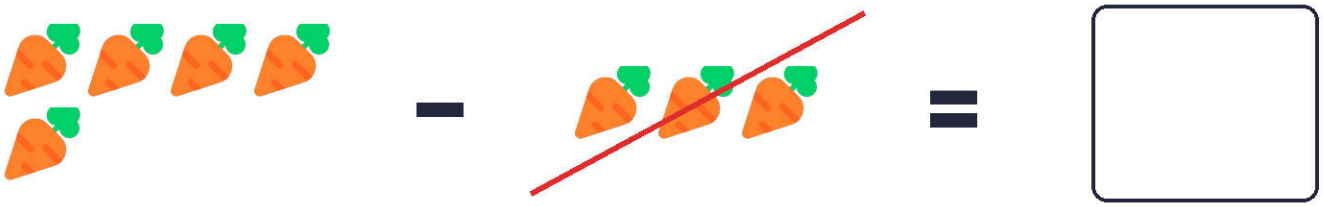







¡Lo logré! ☆ ☆ ☆

034 Resta con dibujos

Matemáticas

Del primer grupo se van los del segundo. ¿Cuántos quedan? Escribe el resultado.









¡Lo logré! ☆ ☆ ☆

035

Resta con dibujos

Matemáticas

Del primer grupo se van los del segundo. ¿Cuántos quedan? Escribe el resultado.









¡Lo logré! ☆ ☆ ☆

036 Resta con dibujos

Matemáticas

Del primer grupo se van los del segundo. ¿Cuántos quedan? Escribe el resultado.









¡Lo logré! ☆ ☆ ☆

037 Resta con dibujos

Matemáticas

Del primer grupo se van los del segundo. ¿Cuántos quedan? Escribe el resultado.

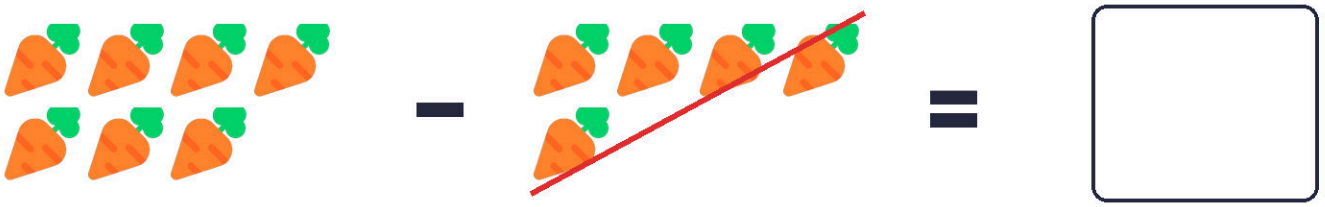







¡Lo logré! ☆ ☆ ☆

038

Resta con dibujos

Matemáticas

Del primer grupo se van los del segundo. ¿Cuántos quedan? Escribe el resultado.









¡Lo logré! ☆ ☆ ☆

039

Resta con dibujos

Matemáticas

Del primer grupo se van los del segundo. ¿Cuántos quedan? Escribe el resultado.









¡Lo logré! ☆ ☆ ☆

040 Resta con dibujos

Matemáticas

Del primer grupo se van los del segundo. ¿Cuántos quedan? Escribe el resultado.









¡Lo logré! ☆ ☆ ☆

041

Resta con dibujos

Matemáticas

Del primer grupo se van los del segundo. ¿Cuántos quedan? Escribe el resultado.









¡Lo logré! ☆ ☆ ☆

042

Resta con dibujos

Matemáticas

Del primer grupo se van los del segundo. ¿Cuántos quedan? Escribe el resultado.









¡Lo logré! ☆ ☆ ☆

043

Resta con dibujos

Matemáticas

Del primer grupo se van los del segundo. ¿Cuántos quedan? Escribe el resultado.









¡Lo logré! ☆ ☆ ☆

044

Resta con dibujos

Matemáticas

Del primer grupo se van los del segundo. ¿Cuántos quedan? Escribe el resultado.

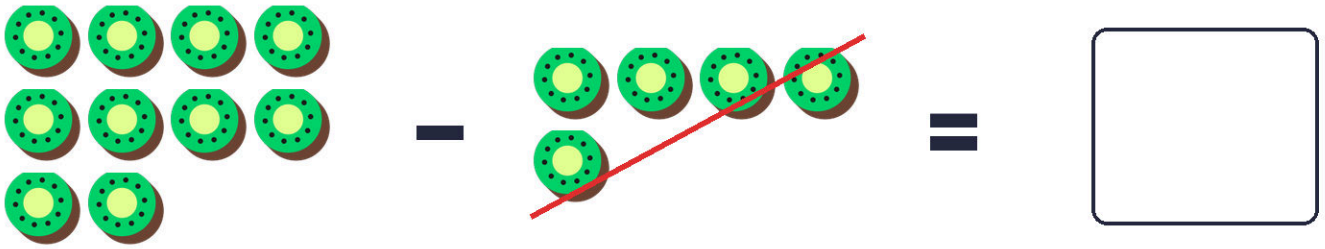







¡Lo logré! ☆ ☆ ☆

045

Resta con dibujos

Matemáticas

Del primer grupo se van los del segundo. ¿Cuántos quedan? Escribe el resultado.









¡Lo logré! ☆ ☆ ☆

046

Sumas y restas

Matemáticas

Resuelve cada operación y escribe el resultado en la línea.

9 – 8 = ____	10 – 6 = ____
3 + 1 = ____	6 + 2 = ____
9 + 9 = ____	6 – 4 = ____
4 + 7 = ____	1 – 1 = ____
3 – 3 = ____	7 – 5 = ____

¡Lo logré! ☆ ☆ ☆

047

Sumas y restas

Matemáticas

Resuelve cada operación y escribe el resultado en la línea.

1 + 6 = ____	3 + 8 = ____
8 + 7 = ____	2 – 2 = ____
8 + 7 = ____	5 + 2 = ____
5 + 2 = ____	8 + 4 = ____
7 – 7 = ____	8 + 4 = ____

¡Lo logré! ☆ ☆ ☆

048

Sumas y restas

Matemáticas

Resuelve cada operación y escribe el resultado en la línea.

2 + 1 = ____	4 + 5 = ____
8 – 5 = ____	10 – 6 = ____
6 – 3 = ____	9 + 8 = ____
3 + 4 = ____	7 – 2 = ____
5 + 6 = ____	8 + 9 = ____

¡Lo logré! ☆ ☆ ☆

049

Sumas y restas

Matemáticas

Resuelve cada operación y escribe el resultado en la línea.

4 – 1 = ____	3 + 5 = ____
1 + 8 = ____	9 + 6 = ____
2 + 4 = ____	7 – 2 = ____
5 + 4 = ____	7 – 1 = ____
3 – 2 = ____	2 + 5 = ____

¡Lo logré! ☆ ☆ ☆

050

Sumas y restas

Matemáticas

Resuelve cada operación y escribe el resultado en la línea.

6 + 6 = ____	10 – 2 = ____
7 – 5 = ____	4 + 4 = ____
3 + 6 = ____	3 – 1 = ____
1 + 10 = ____	10 – 5 = ____
2 + 7 = ____	1 + 1 = ____

¡Lo logré! ☆ ☆ ☆

051

Sumas y restas

Matemáticas

Resuelve cada operación y escribe el resultado en la línea.

15 – 7 = ____

17 + 8 = ____

11 + 9 = ____

11 + 6 = ____

2 + 18 = ____

8 – 6 = ____

5 + 9 = ____

2 – 1 = ____

1 + 10 = ____

13 – 2 = ____

¡Lo logré! ☆ ☆ ☆

052

Sumas y restas

Matemáticas

Resuelve cada operación y escribe el resultado en la línea.

14 – 9 = ____	12 + 4 = ____
20 – 12 = ____	7 – 2 = ____
4 + 10 = ____	20 + 13 = ____
9 – 6 = ____	9 + 11 = ____
9 – 2 = ____	12 – 6 = ____

¡Lo logré! ☆ ☆ ☆

053

Sumas y restas

Matemáticas

Resuelve cada operación y escribe el resultado en la línea.

14 – 9 = ____	4 + 16 = ____
8 + 6 = ____	14 + 3 = ____
15 – 14 = ____	15 – 9 = ____
3 – 2 = ____	4 – 4 = ____
9 – 3 = ____	18 – 10 = ____

¡Lo logré! ☆ ☆ ☆

054 Sumas y restas

Matemáticas

Resuelve cada operación y escribe el resultado en la línea.

20 – 20 = ____	13 – 7 = ____
16 + 12 = ____	4 – 4 = ____
19 – 4 = ____	1 – 1 = ____
16 + 9 = ____	1 – 1 = ____
12 – 8 = ____	2 + 13 = ____

¡Lo logré! ☆ ☆ ☆

055

Sumas y restas

Matemáticas

Resuelve cada operación y escribe el resultado en la línea.

7 + 12 = ____	2 + 17 = ____
2 – 2 = ____	1 + 3 = ____
20 – 17 = ____	19 + 5 = ____
19 + 17 = ____	18 + 10 = ____
13 + 11 = ____	3 + 2 = ____

¡Lo logré! ☆ ☆ ☆

056

Sumas y restas

Matemáticas

Resuelve cada operación y escribe el resultado en la línea.

46 + 13 = ____

35 + 33 = ____

7 + 37 = ____

19 + 19 = ____

18 + 29 = ____

4 – 4 = ____

25 – 8 = ____

23 – 20 = ____

44 – 18 = ____

20 + 15 = ____

¡Lo logré! ☆ ☆ ☆

057

Sumas y restas

Matemáticas

Resuelve cada operación y escribe el resultado en la línea.

19 + 19 = ____	41 + 10 = ____
26 + 23 = ____	34 – 33 = ____
39 + 31 = ____	42 + 35 = ____
14 – 5 = ____	11 + 33 = ____
8 + 37 = ____	17 + 6 = ____

¡Lo logré! ☆ ☆ ☆

058

Sumas y restas

Matemáticas

Resuelve cada operación y escribe el resultado en la línea.

26 + 20 = ____	27 – 4 = ____
49 + 38 = ____	29 – 10 = ____
22 + 47 = ____	17 + 41 = ____
25 + 20 = ____	3 – 1 = ____
47 – 45 = ____	48 + 22 = ____

¡Lo logré! ☆ ☆ ☆

059

Sumas y restas

Matemáticas

Resuelve cada operación y escribe el resultado en la línea.

46 – 34 = ____

41 + 43 = ____

42 + 13 = ____

31 + 3 = ____

27 – 4 = ____

40 – 28 = ____

21 + 33 = ____

15 + 32 = ____

20 – 18 = ____

16 – 10 = ____

¡Lo logré! ☆ ☆ ☆

060

Sumas y restas

Matemáticas

Resuelve cada operación y escribe el resultado en la línea.

27 + 11 = ____	50 – 8 = ____
26 – 8 = ____	31 – 26 = ____
40 + 17 = ____	38 – 35 = ____
16 + 6 = ____	21 + 34 = ____
26 – 5 = ____	35 – 14 = ____

¡Lo logré! ☆ ☆ ☆

061

Tabla de multiplicar

Matemáticas

Completa la tabla. Puedes ayudarte contando de a saltos.

$2 \times 1 =$ ____	$2 \times 6 =$ ____
$2 \times 2 =$ ____	$2 \times 7 =$ ____
$2 \times 3 =$ ____	$2 \times 8 =$ ____
$2 \times 4 =$ ____	$2 \times 9 =$ ____
$2 \times 5 =$ ____	$2 \times 10 =$ ____

¡Lo logré! ☆ ☆ ☆

062

Tabla de multiplicar

Matemáticas

Completa la tabla. Puedes ayudarte contando de a saltos.

$3 \times 1 =$ ____	$3 \times 6 =$ ____
$3 \times 2 =$ ____	$3 \times 7 =$ ____
$3 \times 3 =$ ____	$3 \times 8 =$ ____
$3 \times 4 =$ ____	$3 \times 9 =$ ____
$3 \times 5 =$ ____	$3 \times 10 =$ ____

¡Lo logré! ☆ ☆ ☆

063

Tabla de multiplicar

Matemáticas

Completa la tabla. Puedes ayudarte contando de a saltos.

$4 \times 1 =$ ____

$4 \times 2 =$ ____

$4 \times 3 =$ ____

$4 \times 4 =$ ____

$4 \times 5 =$ ____

$4 \times 6 =$ ____

$4 \times 7 =$ ____

$4 \times 8 =$ ____

$4 \times 9 =$ ____

$4 \times 10 =$ ____

¡Lo logré! ☆ ☆ ☆

064

Tabla de multiplicar

Matemáticas

Completa la tabla. Puedes ayudarte contando de a saltos.

$5 \times 1 =$ ____	$5 \times 6 =$ ____
$5 \times 2 =$ ____	$5 \times 7 =$ ____
$5 \times 3 =$ ____	$5 \times 8 =$ ____
$5 \times 4 =$ ____	$5 \times 9 =$ ____
$5 \times 5 =$ ____	$5 \times 10 =$ ____

¡Lo logré! ☆ ☆ ☆

065

Tabla de multiplicar

Matemáticas

Completa la tabla. Puedes ayudarte contando de a saltos.

$6 \times 1 =$ ____	$6 \times 6 =$ ____
$6 \times 2 =$ ____	$6 \times 7 =$ ____
$6 \times 3 =$ ____	$6 \times 8 =$ ____
$6 \times 4 =$ ____	$6 \times 9 =$ ____
$6 \times 5 =$ ____	$6 \times 10 =$ ____

¡Lo logré! ☆ ☆ ☆

066

Tabla de multiplicar

Matemáticas

Completa la tabla. Puedes ayudarte contando de a saltos.

$7 \times 1 =$ ____	$7 \times 6 =$ ____
$7 \times 2 =$ ____	$7 \times 7 =$ ____
$7 \times 3 =$ ____	$7 \times 8 =$ ____
$7 \times 4 =$ ____	$7 \times 9 =$ ____
$7 \times 5 =$ ____	$7 \times 10 =$ ____

¡Lo logré! ☆ ☆ ☆

067

Tabla de multiplicar

Matemáticas

Completa la tabla. Puedes ayudarte contando de a saltos.

$8 \times 1 =$ ____	$8 \times 6 =$ ____
$8 \times 2 =$ ____	$8 \times 7 =$ ____
$8 \times 3 =$ ____	$8 \times 8 =$ ____
$8 \times 4 =$ ____	$8 \times 9 =$ ____
$8 \times 5 =$ ____	$8 \times 10 =$ ____

¡Lo logré! ☆ ☆ ☆

068

Tabla de multiplicar

Matemáticas

Completa la tabla. Puedes ayudarte contando de a saltos.

$9 \times 1 =$ ____	$9 \times 6 =$ ____
$9 \times 2 =$ ____	$9 \times 7 =$ ____
$9 \times 3 =$ ____	$9 \times 8 =$ ____
$9 \times 4 =$ ____	$9 \times 9 =$ ____
$9 \times 5 =$ ____	$9 \times 10 =$ ____

¡Lo logré! ☆ ☆ ☆

069

Tabla de multiplicar

Matemáticas

Completa la tabla. Puedes ayudarte contando de a saltos.

$10 \times 1 =$ ____	$10 \times 6 =$ ____
$10 \times 2 =$ ____	$10 \times 7 =$ ____
$10 \times 3 =$ ____	$10 \times 8 =$ ____
$10 \times 4 =$ ____	$10 \times 9 =$ ____
$10 \times 5 =$ ____	$10 \times 10 =$ ____

¡Lo logré! ☆ ☆ ☆

070

Completa la serie

Matemáticas

Descubre de cuánto en cuánto avanzan los números y escribe los que faltan.

14		24		34	39	44
7	10		16		22	25
1	6		16	21	26	
7	8	9	10			13
16		22	25	28		34
12		14		16	17	18
11	21	31	41		61	

¡Lo logré! ☆ ☆ ☆

071

Completa la serie

Matemáticas

Descubre de cuánto en cuánto avanzan los números y escribe los que faltan.

18	23	28			43	48
13	14		16	17		19
16	18	20		24		28
10	13	16		22	25	
20		24	26		30	32
14	15	16	17		19	
15			30	35	40	45

¡Lo logré! ☆ ☆ ☆

072 Completa la serie

Matemáticas

Descubre de cuánto en cuánto avanzan los números y escribe los que faltan.

15	18	☐	24	27	☐	33
4	5	☐	7	8	☐	10
5	☐	11	☐	17	20	23
0	☐	10	☐	20	25	30
3	☐	13	18	23	28	☐
14	16	☐	20	22	☐	26
2	12	☐	☐	42	52	62

¡Lo logré! ☆ ☆ ☆

073

Completa la serie

Matemáticas

Descubre de cuánto en cuánto avanzan los números y escribe los que faltan.

9		11	12	13		15
16			19	20	21	22
12		16	18	20		24
19	21			27	29	31
3		23	33	43		63
18		24	27	30	33	
15	16			19	20	21

¡Lo logré! ☆ ☆ ☆

074

Completa la serie

Matemáticas

Descubre de cuánto en cuánto avanzan los números y escribe los que faltan.

4		6		8	9	10
0	5	10		20		30
14	19	24	29		39	
1			10	13	16	19
13	14	15	16		18	
10	13			22	25	28
20			50	60	70	80

¡Lo logré! ☆ ☆ ☆

075

Completa la serie

Matemáticas

Descubre de cuánto en cuánto avanzan los números y escribe los que faltan.

9		13		17	19	21
14	16	18	20			26
16	26	36		56	66	
7	9		13		17	19
1	2	3		5	6	
4			10	12	14	16
12	13	14		16		18

¡Lo logré! ☆ ☆ ☆

076

Completa la serie

Matemáticas

Descubre de cuánto en cuánto avanzan los números y escribe los que faltan.

0		6	9		15	18
12			18	20	22	24
0	5	10		20	25	
11	21		41		61	71
0		2	3	4	5	
13	18	23		33	38	
7			13	15	17	19

¡Lo logré! ☆ ☆ ☆

077

Completa la serie

Matemáticas

Descubre de cuánto en cuánto avanzan los números y escribe los que faltan.

16		20	22	24		28
19	24	29		39	44	
8	11		17	20		26
17		23	26	29		35
17			20	21	22	23
16	21		31	36	41	
2		4	5	6		8

¡Lo logré! ☆ ☆ ☆

078

Completa la serie

Matemáticas

Descubre de cuánto en cuánto avanzan los números y escribe los que faltan.

2	4	6	8			14
15	18		24	27		33
8	13		23		33	38
6	9	12	15		21	
15		19		23	25	27
0		4		8	10	12
20		22		24	25	26

¡Lo logré! ☆ ☆ ☆

079

Completa la serie

Matemáticas

Descubre de cuánto en cuánto avanzan los números y escribe los que faltan.

17	19	☐	23	☐	27	29
5	10	☐	20	☐	30	35
2	12	22	☐	☐	52	62
15	☐	17	18	19	☐	21
16	18	20	22	☐	26	☐
1	☐	11	16	21	26	☐
13	16	19	☐	☐	28	31

¡Lo logré! ☆ ☆ ☆

080

Mayor, menor o igual

Matemáticas

Escribe en el círculo el signo correcto: > (mayor), < (menor) o = (igual).

8 ◯ 2

3 ◯ 6

7 ◯ 0

0 ◯ 0

4 ◯ 6

2 ◯ 8

1 ◯ 0

3 ◯ 6

¡Lo logré! ☆ ☆ ☆

081 Mayor, menor o igual

Matemáticas

Escribe en el círculo el signo correcto: > (mayor), < (menor) o = (igual).

14 ◯ 8

7 ◯ 8

9 ◯ 9

12 ◯ 7

14 ◯ 10

3 ◯ 5

11 ◯ 2

1 ◯ 5

¡Lo logré! ☆ ☆ ☆

082 Mayor, menor o igual

Matemáticas

Escribe en el círculo el signo correcto: > (mayor), < (menor) o = (igual).

11 ◯ 13

1 ◯ 17

2 ◯ 14

6 ◯ 14

0 ◯ 17

12 ◯ 3

3 ◯ 1

4 ◯ 19

¡Lo logré! ☆ ☆ ☆

083

Mayor, menor o igual

Matemáticas

Escribe en el círculo el signo correcto: > (mayor), < (menor) o = (igual).

18 ◯ 23

13 ◯ 6

2 ◯ 20

21 ◯ 7

20 ◯ 21

17 ◯ 2

10 ◯ 7

11 ◯ 13

¡Lo logré! ☆ ☆ ☆

084

Mayor, menor o igual

Matemáticas

Escribe en el círculo el signo correcto: > (mayor), < (menor) o = (igual).

21 ◯ 17

21 ◯ 20

27 ◯ 10

9 ◯ 23

21 ◯ 0

16 ◯ 14

12 ◯ 21

24 ◯ 14

¡Lo logré! ☆ ☆ ☆

085

Mayor, menor o igual

Matemáticas

Escribe en el círculo el signo correcto: > (mayor), < (menor) o = (igual).

20 ◯ 3

26 ◯ 12

28 ◯ 33

14 ◯ 27

1 ◯ 17

27 ◯ 27

9 ◯ 12

6 ◯ 17

¡Lo logré! ☆ ☆ ☆

086

Mayor, menor o igual

Matemáticas

Escribe en el círculo el signo correcto: > (mayor), < (menor) o = (igual).

23 ◯ 24

7 ◯ 12

16 ◯ 30

14 ◯ 28

11 ◯ 9

15 ◯ 7

22 ◯ 31

11 ◯ 17

¡Lo logré! ☆ ☆ ☆

087

Mayor, menor o igual

Matemáticas

Escribe en el círculo el signo correcto: > (mayor), < (menor) o = (igual).

10 ◯ 21

17 ◯ 11

18 ◯ 5

37 ◯ 7

23 ◯ 6

42 ◯ 1

19 ◯ 0

39 ◯ 15

¡Lo logré! ☆ ☆ ☆

088

Mayor, menor o igual

Matemáticas

Escribe en el círculo el signo correcto: > (mayor), < (menor) o = (igual).

37 ◯ 36

27 ◯ 49

47 ◯ 18

40 ◯ 15

1 ◯ 40

10 ◯ 10

28 ◯ 0

22 ◯ 25

¡Lo logré! ☆ ☆ ☆

089

Mayor, menor o igual

Matemáticas

Escribe en el círculo el signo correcto: > (mayor), < (menor) o = (igual).

52 ◯ 43

2 ◯ 50

33 ◯ 27

45 ◯ 31

41 ◯ 2

34 ◯ 8

42 ◯ 17

16 ◯ 31

¡Lo logré! ☆ ☆ ☆

090

Une el número con la cantidad

Matemáticas

Cuenta cada grupo y únelo con una línea con su número.



8



9



3



10



2

¡Lo logré! ☆ ☆ ☆

091

Une el número con la cantidad

Matemáticas

Cuenta cada grupo y únelo con una línea con su número.



5



7



1



4



2

¡Lo logré! ☆ ☆ ☆

092

Une el número con la cantidad

Matemáticas

Cuenta cada grupo y únelo con una línea con su número.



9



6



3



7



5

¡Lo logré! ☆ ☆ ☆

093

Une el número con la cantidad

Matemáticas

Cuenta cada grupo y únelo con una línea con su número.



6



8



9



4



2

¡Lo logré! ☆ ☆ ☆

094

Une el número con la cantidad

Matemáticas

Cuenta cada grupo y únelo con una línea con su número.



1



7



4



10



3

¡Lo logré! ☆ ☆ ☆

095

Une el número con la cantidad

Matemáticas

Cuenta cada grupo y únelo con una línea con su número.



9



8



5



2



6

¡Lo logré! ☆ ☆ ☆

096

Problemas para pensar

Matemáticas

Lee cada problema con ayuda de un adulto, haz un dibujo si quieres y escribe la respuesta.



Diego tiene 3 y le regalan 4 más. ¿Cuántos tiene ahora?

Respuesta: _____



Camila tiene 5 y se come 1. ¿Cuántos le quedan?

Respuesta: _____



Sofía tiene 8 y le regalan 2 más. ¿Cuántos tiene ahora?

Respuesta: _____

¡Lo logré! ☆ ☆ ☆

097

Problemas para pensar

Matemáticas

Lee cada problema con ayuda de un adulto, haz un dibujo si quieres y escribe la respuesta.



Camila tiene 3 y le regalan 4 más. ¿Cuántos tiene ahora?

Respuesta: _____



Camila tiene 6 y se come 1. ¿Cuántos le quedan?

Respuesta: _____



Camila tiene 4 y le regalan 2 más. ¿Cuántos tiene ahora?

Respuesta: _____

¡Lo logré! ☆ ☆ ☆

098

Problemas para pensar

Matemáticas

Lee cada problema con ayuda de un adulto, haz un dibujo si quieres y escribe la respuesta.



Camila tiene 2 y le regalan 4 más. ¿Cuántos tiene ahora?

Respuesta: _____



Mateo tiene 6 y se come 5. ¿Cuántos le quedan?

Respuesta: _____



Diego tiene 8 y le regalan 5 más. ¿Cuántos tiene ahora?

Respuesta: _____

¡Lo logré! ☆ ☆ ☆

099

Problemas para pensar

Matemáticas

Lee cada problema con ayuda de un adulto, haz un dibujo si quieres y escribe la respuesta.



Sofía tiene 8 y le regalan 5 más. ¿Cuántos tiene ahora?

Respuesta: _____



Diego tiene 4 y se come 3. ¿Cuántos le quedan?

Respuesta: _____



Diego tiene 8 y le regalan 2 más. ¿Cuántos tiene ahora?

Respuesta: _____

¡Lo logré! ☆ ☆ ☆

100

Problemas para pensar

Matemáticas

Lee cada problema con ayuda de un adulto, haz un dibujo si quieres y escribe la respuesta.



Mateo tiene 4 y le regalan 5 más. ¿Cuántos tiene ahora?

Respuesta: _____



Camila tiene 5 y se come 4. ¿Cuántos le quedan?

Respuesta: _____



Ana tiene 4 y le regalan 3 más. ¿Cuántos tiene ahora?

Respuesta: _____

¡Lo logré! ☆ ☆ ☆

101 Problemas para pensar

Matemáticas

Lee cada problema con ayuda de un adulto, haz un dibujo si quieres y escribe la respuesta.



Diego tiene 8 y le regalan 4 más. ¿Cuántos tiene ahora?

Respuesta: _____



Tomás tiene 4 y se come 3. ¿Cuántos le quedan?

Respuesta: _____



Sofía tiene 3 y le regalan 3 más. ¿Cuántos tiene ahora?

Respuesta: _____

¡Lo logré! ☆ ☆ ☆